Sachaufgaben 8a

1.Fred hat im letzten Jahr viel Geld gespart.
In seinem Sparschwein sind 2 Stück 10 € Scheine und 3 Stück 2 € .
Wie viel Geld hat er gespart?

R	:																							
A	:																							

2. Fred hat von Oma zum Geburtstag 20 € bekommen, von Opa 5 € und von seinem Onkel 5 €. Wie viel Geld hat er nun?

R	:																							
A	:																							

3. Lina hat in ihrem Sparschwein 3 Stück 10 € Scheine. Wie viel Geld hat sie gespart?

R	:																							
A	:																							

4. Lotte hat schon 20 € gespart. Jetzt bekommt sie von Oma noch 10 € dazu. Wie viel Geld hat sie nun?

R	:																							
A	:																							

Sachaufgaben 8b

1.Fred hat 20 Euro gespart. Er möchte sich ein Spiel um 29 Euro kaufen. Wie viel muss er noch sparen?

R	:																						
A	:																						

2. Fritz hat 25 € gespart. Er möchte sich eine CD um 9 € kaufen. Wie viel Geld bleibt noch übrig?

R	:																						
A	:																						

3. Lina hat 30 € auf ihrem Sparbuch. Sie möchte ein Buch um 11 € und ein Spiel um 8 € kaufen. Reicht das Geld?

R	:																						
A	:																						

4. Lotte will unbedingt ein Spiel um 29 € kaufen. Sie hat schon 15 € gespart. Wie viel fehlt ihr noch?

R	:																						
A	:																						

Sachaufgaben 9a

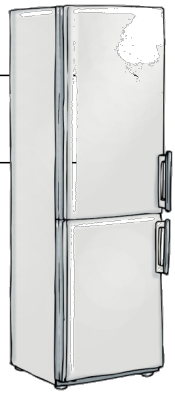

1. Fanni holt dreimal 2 Flaschen Limo aus dem Kühlschrank. Wie viele Flaschen Limo sind das?

R	:																						
A	:																						

2. Bella holt viermal 2 Puddingbecher aus dem Kühlschrank. Wie viel Pudding ist das?

R	:																						
A	:																						

3. Lina holt achtmal 2 Scheiben Wurst aus dem Kühlschrank. Wie viel Wurst ist das?

R	:																						
A	:																						

4. Laura holt fünfmal 5 2 Schokoladen aus dem Kühlschrank. Wie viel Schokolade ist das?

R	:																						
A	:																						

Sachaufgaben 9a

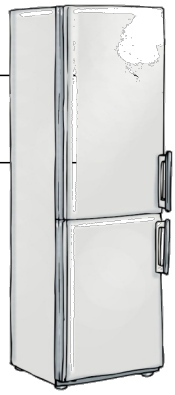

1. Fanni holt zweimal 6 Flaschen Bier aus dem Keller.
Wie viele Flaschen sind das?

R	:																						
A	:																						

2. Bella hat 10 Kekse aus dem Keller geholt. Sie teilt sie auf 2 Kinder auf. Wie viele Kekse bekommt jedes Kind?

R	:																						
A	:																						

3. Mama holt 8 Äpfel aus dem Keller. Sie verteilt sie an Fritz und seinen Freund. Wie viele Äpfel bekommt jedes Kind?

R	:																						
A	:																						

4. Laura holt zweimal 6 Flaschen Orangensaft aus dem Supermarkt.
Wie viele Flaschen hat sie gekauft?

R	:																						
A	:																						



Sachaufgaben 10a

1. Das Eichhörnchen sammelt 13 Kastanien, 12 Eicheln und 5 Buchecker. Wie viel Stück hat es gesammelt?

R	:																						
A	:																						

2. Das Eichhörnchen sammelt 10 Nüsse, 8 Kastanien und 6 Buchecker. Wie viel Stück hat es gesammelt?

R	:																						
A	:																						

3. Das Eichhörnchen hat 30 Nüsse gesammelt. Weil es großen Hunger hatte, hat es 5 schon gefressen. Wie viele sind noch übrig?

R	:																						
A	:																						

4. Das Eichhörnchen hat 20 Nüsse gesammelt. Weil es großen Hunger hatte, hat es 16 schon gefressen. Wie viele sind noch übrig?

R	:																						
A	:																						



Sachaufgaben 10b

1. Das Eichhörnchen sammelt 15 Kastanien, 11 Eicheln und 3 Buchecker. Wie viel Stück hat es gesammelt?

R	:																						
A	:																						

2. Das Eichhörnchen sammelt 10 Nüsse, 7 Kastanien und 7 Buchecker. Wie viel Stück hat es gesammelt?

R	:																						
A	:																						

3. Das Eichhörnchen hat 20 Nüsse gesammelt. Weil es großen Hunger hatte, hat es 12 schon gefressen. Wie viele sind noch übrig?

R	:																						
A	:																						

4. Das Eichhörnchen hat 30 Nüsse gesammelt. Jeden Tag isst es 10 Nüsse. Wie lange reichen die Nüsse?

R	:																						
A	:																						

Sachaufgaben 11a

1. Im Schulbus sitzen 24 Kinder. 9 Kinder steigen ein.
Wie viele Kinder sind jetzt im Bus?

R	:																						
A	:																						

2. Im Schulbus sitzen 22 Kinder. 8 Kinder steigen ein.
Wie viele Kinder sind jetzt im Bus?

R	:																						
A	:																						

3. Im Schulbus sitzen 20 Kinder. 6 Kinder steigen aus.
Wie viele Kinder sitzen jetzt im Bus?

R	:																						
A	:																						

4. Im Schulbus sitzen 30 Kinder. 17 Kinder steigen aus.
Wie viele Kinder sitzen jetzt im Bus?

R	:																						
A	:																						

Sachaufgaben 11b

1. Im Schulbus sitzen 21 Kinder. 9 Kinder steigen ein.
An der nächsten Haltestelle steigen 3 Kinder aus.
Wie viele Kinder sind nun im Bus?

R	:																							
A	:																							

2. Im Schulbus sitzen 22 Kinder. 8 Kinder steigen ein, 19 steigen aus. Wie viele Kinder sind jetzt im Bus?

R	:																							
A	:																							

3. Im Schulbus sitzen 20 Kinder. 6 Kinder steigen aus. An der nächsten Haltestelle steigen 12 ein. Wie viele Kinder sitzen jetzt im Bus?

R	:																							
A	:																							

4. Im Schulbus sitzen 30 Kinder. 17 Kinder steigen aus und 13 steigen ein. Wie viele Kinder sitzen jetzt im Bus?

R	:																							
A	:																							

Sachaufgaben 12a

1. Beim Fußballtraining sind 23 Kinder dabei. 3 Kinder werden schnell müde und ein Kind verletzt sich. Wie viele Kinder trainieren noch?

R	:																						
A	:																						

2. In der Fußballmannschaft sind 16 Kinder. 3 davon sind Mädchen. Wie viele Buben sind es?

R	:																						
A	:																						

3. Zum Training haben die Kinder 20 Bälle zur Verfügung. Beim Verräumen sind nur noch 17 da. Wie viele Bälle fehlen?

R	:																						
A	:																						

4. Nach dem Training essen alle 11 Kinder der Mannschaft gemeinsam Würstchen. Jedes Kind will 2 Stück. Wie viele Würste muss man kochen?

R	:																						
A	:																						

Sachaufgaben 12b

1. Beim Training werden 30 Schüsse aufs Tor abgegeben. Der Tormann kann 20 Schüsse abwehren. Wie viele Bälle landen im Tor?

R	:																						
A	:																						

2. Beim Training werden 50 Schüsse aufs Tor abgegeben. Der Tormann kann 23 Schüsse abwehren. Wie viele Bälle landen im Tor?

R	:																						
A	:																						

3. Max läuft beim Fußballtraining 40 Schritte. Sein Freund nur 33 Schritte. Um wie viele Schritte ist Max mehr gelaufen?

R	:																						
A	:																						

4. Nach dem Training essen alle 14 Kinder der Mannschaft gemeinsam Würstchen. Jedes Kind will 2 Stück. Wie viele Würste muss man kochen?

R	:																						
A	:																						

Sachaufgaben 13a



1. Oma backt im Advent viele Kekse. Sie hat 10 Vanillekipferl, 20 Kokosbusserl und 20 Ausstechkekse gemacht. Wie viele Kekse sind das?

R	:																						
A	:																						

2. Oma hat 40 Kekse aus Schokoteig gemacht. 20 davon bekommen einen Überzug aus Schokolade. Wie viele Kekse haben keinen Überzug?

R	:																						
A	:																						

3. Mama hat 40 Kekse gebacken. Die Kinder haben schon 23 Kekse gegessen. Wie viele sind noch übrig?

R	:																						
A	:																						

4. Mama hat 50 Stück Schokostreusel. Auf jeden Lebkuchen kommen 5 Stück. Wie viele Lebkuchen kann sie machen?

R	:																						
A	:																						

Sachaufgaben 13b



1. Oma braucht für Kekse backen 40 Stück Eier.
Eine Zehnerpackung kostet 4 Euro. Wie viel muss Oma bezahlen?

R	:																						
A	:																						

2. Oma hat von den 40 gekauften Eiern 36 Eier verbraucht. Wie viele Eier sind noch übrig?

R	:																						
A	:																						

3. An Weihnachten sind von 40 gemachten Keksen nur noch 8 übrig.
Wie viele Kekse wurden schon gegessen?

R	:																						
A	:																						

4. Sissi möchte ihren Freunden Kekse schenken. Sie hat 45 Stück gemacht. Immer 5 Kekse kommen in ein Säckchen. Wie viele Freunde bekommen ein Geschenk?

R	:																						
A	:																						

Sachaufgaben 14a

1. Unter dem Weihnachtsbaum sind 20 Päckchen. Papa, Mama. Tom und Tim bekommen jeder gleich viele davon. Wie viele Päckchen bekommt jeder?

R	:																						
A	:																						

2. Am Weihnachtsbaum hängen 23 rote und 17 goldene Kugeln. Wie viele Kugeln sind das?

R	:																						
A	:																						

3. Am Weihnachtsbaum hängen 18 rote und 19 silberne Kugeln. Drei Kugeln gehen beim Aufhängen kaputt. Wie viele waren es?

R	:																						
A	:																						

4. Sissi hängt Schokoherzen an den Weihnachtsbaum. In der Packung sind 20 Stück. Drei Stück isst ihr Bruder gleich auf. Wie viele Herzen sind am Baum?

R	:																						
A	:																						

Sachaufgaben 14b

1. Unter dem Weihnachtsbaum sind viele Päckchen.
Jedes Familienmitglied bekommt drei Stück.
Wie viele Pakte sind das für 5 Personen?

R	:																						
A	:																						

2. Am Weihnachtsbaum hängen 18 rote und 19 goldene Kugeln. Wie viele Kugeln sind das?

R	:																						
A	:																						

3. Am Weihnachtsbaum hängen 31 rote und 12 silberne Kugeln.
Fünf Kugeln gehen beim Aufhängen kaputt. Wie viele waren es?

R	:																						
A	:																						

4. Sissi hängt Schokoherzen an den Weihnachtsbaum. In der Packung sind 20 Stück. Drei Stück isst ihr Bruder gleich auf. Wie viele Herzen sind am Baum, wenn sie zwei Packungen gekauft hat?

R	:																						
A	:																						